海岛讲堂

海岛的泞之翼　　1的分谜题的攻略合集，共　　11篇

（ 11篇的来源是海岛自己在后记中陈述，但整理后仅　　10篇，推测可能包括了自己的后记　　——编者注）

- 海岛讲堂之经纬网
- 海岛讲堂之小礼堂
- 海岛讲堂之二楼圆盘解法
- 海岛讲堂之美术室的机关
- 海岛讲堂之水密码
- 海岛讲堂之电视机
- 海岛讲堂之　3把钥匙
- 海岛讲堂之蛇夫座密码与食堂密码
- 海岛讲堂之电子琴与图书馆
- 海岛讲堂之宿舍的圆盘
- 我想说的话

海岛讲堂之经纬网

海岛讲堂　　～又和各位朋友见面了，今天的讲解如题。

海岛老师其实是极为厌恨经纬网的，因为之前不知道被困了多久，（泪奔　　ing）

经纬网解开后，进入地理室。（吐槽　　ps：这得要地理好的人才解的开，　　your sister，没学地理你造吗）

解开条件，必须拿到纸条，上面有经纬网的提示。

因为答案随机，请按此表自己看。

Ps～:指点一二:　　1.按纸条提示，找到对应的线，然后相连，中间的那一块就是啦。

2.注意啦，是围成的那一块，不要只涂那个架子，全部涂完哦。

海岛讲堂完毕，不懂的请问我哦　　～～

[illegible]

[illegible]

[illegible]

[illegible]

[illegible]

[illegible]

[illegible]

[illegible]

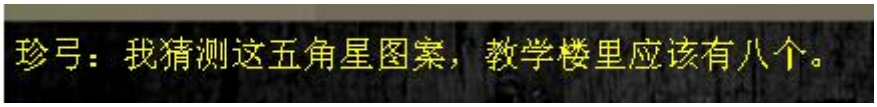

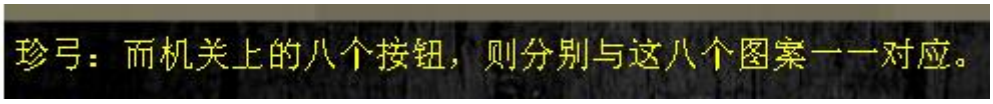

海岛讲堂之二楼圆盘解法

咳咳　..海岛课堂，开课

第一次写，如有不好处，请给意见，废话少说，进入正题。

众所周知在 EDC都有

如图

首先，大家可能无从入手，但玩过了　　C线，从蓝珍弓的话中了解了方法

(注意这句)

：这样吧，我们先找到八个五角星，并记住它们的位置。

珍弓：然后，试着把教学楼看作一个平面，分析在同一水平面上各
五角星之间的相对位置。

□□□

海岛讲堂之美术室的机关

海岛讲堂，咳咳，废话少说，如题。

美术室共有两个机关，一个，是打开后可以获得金之匙。还有一个，就是调色板，解开后可以获得水之匙。

先说，进入美术室，从调色板处，获得九个方块，而要破解这里，总共需要十二个方块。

如图 图有些小，可以无视 ，假设数字为 X

而这个的解法，是这样的，方块所代表的数字，为方块缺口处 ×数字(X)

比如，上部分方块 （倒凸字）代表的数字为2X

中部分方块（上面是凹，下面是山）代表的数字则为 3X

下部分方块（一个大方形，上面有两个小方形）代表的数字也为 3X

解法：算出方块等于多少，然后按顺序运算，后面得出答案。

实在不会的童鞋，按下面常见的搬。

方法一：将方块分解，放进所有倒凸字方块。答案为 2X·2X

方法二：放入青色上部分，然后是青色中、下部分，之后是品红上部分。答案为 X·X·9

解开机关，得到一把金之匙。

现在解调色板，记得取回方块。



□□□

浅绿色 = 青色 + 黄色 + 白色　　灰青色 = 青色 + 青色 + 灰色

解开机关，获得水之匙

海岛讲堂之水密码

各位　～～又见面了，海岛尽量会每天一更，帮大家破解难题。

废话少说，如题。

水密码，其实是 D□□□□□□□□□□

水机关如图 不完整，　54

想解开机关，必须让每个格子上面，都有绿灯开关。

有两个前提，第一　　：遇见素素；第二：打开所有厕所。

在一楼男卫生间，获得锤子，橙色小钥匙。开门，进入一楼的东侧廊，遇见了可怜的素素妹子。

把锤子移到女卫生间洗手池玻璃红叉处，砸开玻璃，进入学科办公室。在高台上找到紫色小钥匙。

砸开的玻璃处，有一个匹配器，把所有钥匙插进去，直到灯全变成绿的为止。之后出来，开一二楼卫生间。

跳过一些步骤，详情看　　D线攻略。

打开　3楼的卫生间，去一楼解开水密码。

第一个为固定的，无视，只是给你提醒，点亮第二个灯，进入一到三楼的卫生间，看有没有水龙头流水。

没有的话，去下一个找。

如果有，请看门背后是数字几，水龙头左边开始数，分别为　　1，2，3，看是第几个水龙头流水，水龙头数　　+门背后的数　　＝密码。

举个例子，，假如是 2楼女卫生间第 3个流水，门背后是 4，则密码为 4+3=7.

然后，记住数字，关掉灯，开下一个。重复以上步骤，记住数字后，关灯，直到最后一个，就可以解开了 !

（密码随机，别想取巧）

奉上一张图 里面就是水之匙啦。

□□□□□□□□

□□□　~□□□□□□□□□□□□□□□□□□□□

□□□□□□□□□□□□□□□□□□□

排一排看，一格一格看。

2.仔细看：这是深入一些了，比如某间教室的哪一个区域与图画的最相似，从哪里开始看不见。

3.联想法：在确定了一部分后，推算空白部分是什么，确定好位置。

这一条，最重要，看着那些 3、4

个格子的，其实会被眼睛欺骗。前面拍的最后一排，与后面拍的第一排，是一样的。

座椅与图案是相对的。我直接发图。

一楼·高一1班课室



□□□□□□

一楼·高一2班课室

一楼·高一2班课室



□□□□□□

一楼·高一3班课室

一楼·高一3班课室



□□□□□□

一楼·高一4班课室
(1)=3.1
(2)=3.14
(3)=3.141
(4)=3.1415
...

一楼·高一4班课室



二楼·高二1班课室

二楼·高二1班课室



□□□□□□

二楼·高二2班课室

二楼·高二2班课室



□□□□□□

二楼·高二3班课室

二楼·高二3班课室



□□□□□□

二楼·高二4班课室

二楼·高二4班课室



□□□□□□□ □

一楼·高一2班课室

一楼·高一2班课室
已抵达目的地



□□□□□□

二楼·高二4班课室

二楼·高二4班课室



□□□□□□

二楼·高二4班课室

二楼·高二4班课室



□□□□□□



它，对应的是

Ok，全部搞定。不要在意教室，只要看见座椅图与上面相同的，就搬到那个教室位置上去。

之后，暗门打开，一票票剧情，之后，取下绿色手轮，安上红色手轮，转动，见到火之匙。

火之匙，　　AB两线可得。作用：打开负二楼前走廊的门。

海岛讲堂，今天两更，不懂的请找我哦。谢谢大家支持!

海岛讲堂之　　3把钥匙

大家好　　～～我是海岛的灵魂，因为海岛已自杀，请大家烧纸，让他早日复活。

今天讲的内容是：土之匙，日之匙　　and月之匙。

剧透　ps：过不了多久，我就会写火之匙，也就是电视机啦。记得烧纸。

土之匙，在三条线中可以获得，一条为　　A，还有　B，另一条为　　E。

先说　A线，前面跳过，请看攻略。

用方块打开高一年级办公室的门，有个柜子，点顶部，得到土之匙。

接着　B线，只要不把电池放在电梯里，放在暗道，如　　A。

然后　E线，前面跳过，请看攻略。

用在地窖找到的月之匙打开游泳池花廊的门，进入花廊。如果此时你手中有了两个马桶吸，就可以触发剧情，凌紫要去拿那对面的东西。

Ps：如果不小心，就会坠落结局。

正确的路线，请根据语音室的井字棋来进行。（最好用截图后，将图片旋转一次，那是正确的，跟着圈走）不过　...是不是作弊呢，那么多×，被　　pia飞　～～～～～

对的，凌紫拿到的，是土之匙。

土之匙，作用为打开负一楼仓库的门。可以得到一串密码　　99×99，算出来的答案输入一楼更衣室走廊的电网密码，就可以进入负一楼的前走廊了。

□□□

海岛讲堂之蛇夫座密码与食堂密码

大家好　　～～～～我是海岛，今天的内容如题。

只有　D线可以解蛇夫座以及食堂，可有人还是不会，所以海岛今天来教大家解密码。　　前期看攻略。

首先，一楼中廊。用红桃钥匙打开教室门，得到一本蓝色书。打开得到方块。

上四楼，找到蛇夫座，发现门旁边有一个方块口，放进去。就变成了这样子。

我来讲解一下，第一个为什么是月亮，我给一个提示。公用对称轴。聪明的你发现了，它们可以上下对称。所有图案中，只有月亮是上下对称的，所以是月亮。

再举第二个吧，　　O和H，它们都是上下左右对称的，于是是太阳。

第三个，　　0和V，它们都是左右对称的，于是是星星。

再举一例，假设是　　4和C，它们没有公用对称轴，就应该是山。

解开之后，　　请拍一下，不要手贱打开，不然有惊喜。

之后去一楼，找到后门，点机关。素素会说与四楼蛇夫座很像。

这里说一下，其实上面的等式就是在说这个字母有几笔。聪明的你可能会意识到，是不是和笔画有关？宾果，

你真聪明！的确和画数有关。

这就是我叫大家拍一张的原因，图案照搬，在图案下输入笔画数就好了。

太阳一笔完成，是太阳的，下面输入　　1.

月亮两笔完成，是月亮的，下面输入　　2.

山是七笔完成，是山的，下面输入　　7.

星星十笔完成，是星星的，下面输入 10.

门锁解除!

海岛讲堂，今天已更新。不会请问我哦！谢谢收看。

海岛讲堂之电子琴与图书馆

海岛讲堂，每日一更。今天的讲解内容如题。（对不起，本来该是昨晚更新的，被强行关了电脑，sorry）

可以解图书馆谜题的，只有AB两线可以解。

前期 pia飞，按攻略慢慢走。解开高一二班门之后，在后面书柜得到一本蓝色书。

。这里有规律，让我来讲解。

□□□

海岛讲堂之宿舍的圆盘

海岛大讲堂，开课

今天还是讲圆盘，咳咳 ..大家可能和圆盘过不去，又来为难大家了。

这个圆盘，存在于 D的红桃线

圆盘要看

如图

画框位置

红色不管

海鸥图和最底下的水仙图无论顺时针还是逆时针顺序，都不变，以它们为轴。

404宿舍，是逆时针顺序。以海鸥图起头，就是轴的左边的颜色移至右边，右边的移至左边，就可以解开了。

□□□□

402□□□□

□□□□□

□□□□